Quantité d'une Fraction Relative d'un Ensemble

Nom:

Résoudre chaque problème.

Ex) Exprime carrés comme une fraction de l'ensemble.



1) Exprime étoiles comme une fraction de l'ensemble.

2) Exprime hearts comme une fraction de l'ensemble.



3) Exprime pentagone comme une fraction de l'ensemble.

4) Exprime triangles comme une fraction de l'ensemble.

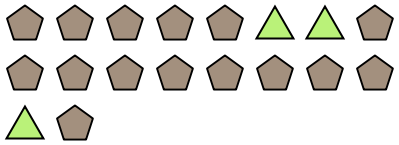

5) Exprime carrés comme une fraction de l'ensemble.



6) Exprime étoiles comme une fraction de l'ensemble.



7) Exprime carrés comme une fraction de l'ensemble.

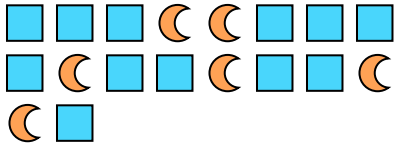

8) Exprime hearts comme une fraction de l'ensemble.

9) Exprime moons comme une fraction de l'ensemble.

10) Exprime moons comme une fraction de l'ensemble.



11) Exprime hearts comme une fraction de l'ensemble.



Réponses

Ex. $\frac{13}{23}$

1. _____
2. _____
3. _____
4. _____
5. _____
6. _____
7. _____
8. _____
9. _____
10. _____
11. _____

Quantité d'une Fraction Relative d'un Ensemble

Nom: **Clé**

Résoudre chaque problème.

Ex) Exprime carrés comme une fraction de l'ensemble.



1) Exprime étoiles comme une fraction de l'ensemble.

2) Exprime hearts comme une fraction de l'ensemble.



3) Exprime pentagone comme une fraction de l'ensemble.

4) Exprime triangles comme une fraction de l'ensemble.

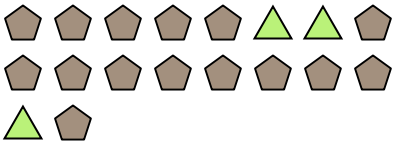

5) Exprime carrés comme une fraction de l'ensemble.



6) Exprime étoiles comme une fraction de l'ensemble.



7) Exprime carrés comme une fraction de l'ensemble.

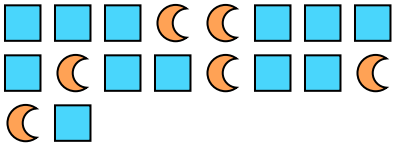

8) Exprime hearts comme une fraction de l'ensemble.

9) Exprime moons comme une fraction de l'ensemble.

10) Exprime moons comme une fraction de l'ensemble.



11) Exprime hearts comme une fraction de l'ensemble.



Réponses

Ex.	$\frac{13}{23}$
1.	$\frac{13}{20}$
2.	$\frac{15}{30}$
3.	$\frac{5}{7}$
4.	$\frac{3}{18}$
5.	$\frac{11}{16}$
6.	$\frac{3}{17}$
7.	$\frac{12}{18}$
8.	$\frac{4}{15}$
9.	$\frac{10}{16}$
10.	$\frac{14}{25}$
11.	$\frac{6}{10}$